Управление образования Администрации ЗАТО Северск Томской области.
Ресурсный центр образования ЗАТО Северск Томской области.

ГОРОДСКАЯ ОЛИМПИАДА ДЛЯ МЛАДШИХ ШКОЛЬНИКОВ
«Первый шаг…»

Естественно – математический тур – 1 класс.

Дорогой олимпиец!

Сейчас ты опять встретишься Винни - Пухом и его друзьями. Ты можешь помочь им и заодно проверить свою смекалку.

Желаем тебе удачи!

Часть А

В этих заданиях тебе нужно выбрать только один правильный ответ. Обведи его.

1. Что не равно 5?
А) количество пальцев на одной руке;
Б) оценка «отлично» в школе;
В) количество дней в рабочей неделе, если суббота и воскресенье выходные дни;
Г) возраст первоклассника

2. Какой месяц является восьмым в году?

А) июнь Б) июль В) август Г) сентябрь

3. Лестница состоит из 7 ступенек. Какая ступенька находится на середине?

А) 4 Б) 5 В) 3

4. Какая цифра на циферблате часов находится напротив 4?

А) 9 Б) 10 В) 11 Г) 12

5. Тигра выше Винни - Пуха, но ниже ослика Иа - Иа. Кто выше всех?

А) Тигра Б) Вини - Пух В) Иа - Иа

Часть Б.

1. Вставь вместо многоточия ... действия "+" или "-", чтобы равенство стало верным:

9 ... 3 ... 5 ... 3 ... 6 = 2
4 ... 5 ... 3 ... 4 ... 2 = 8

2.

Сова спросила у Пятачка:
«Если позавчера была среда,
то какой день будет послезавтра?»
Пятачок думал-думал и сказал: _____
Какой день недели назвал Пятачок?

3. Даны числа: 1, 2, 3, 4, 5. Зачеркни два числа так, чтобы сумма оставшихся была равна 8.

_____

4. У Кролика в диктанте 3 ошибки, а у Тигры, который у него всё списал, 12. Сколько своих ошибок допустил Тигра?

_____

Ответ: _____ ошибок.

5. Полтора арбуза стоят полтора рубля. Сколько стоят 9 арбузов?



Ответ: _____ рублей.

Часть С.

В этой части олимпиады вам нужно показать свои творческие способности!

1. Раскрась кубики, если зелёный – ниже всех, красный – левее всех, а жёлтый – между красным и синим.

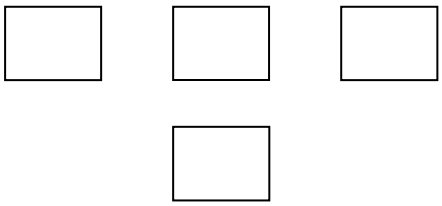

2. Вот Пятачок сидит в тоске.
А перед ним, смотри,
Круг нарисован на песке,
Пять камушков внутри.

Помоги ему провести три прямые линии между камнями так, чтобы каждый камень был отделен от других.

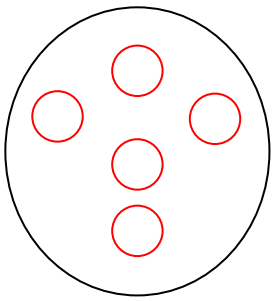

3. Летом Винни – Пух сделал запас мёда на зиму и решил разделить его пополам, чтобы съесть половину до Нового года, а другую половину – после Нового года. Весь мёд находится в ведре, которое вмещает 6 литров. У Винни – Пуха есть две пустые банки : одна вмещает 5 литров, вторая – 1 литр. Как разделить мёд пополам?

_____

_____

_____

_____

_____

_____

_____

_____

Спасибо за труд!