Управление образования Администрации ЗАТО Северск Томской области.
Ресурсный центр образования ЗАТО Северск Томской области.

МУНИЦИПАЛЬНЫЙ ОТКРЫТЫЙ ИНТЕЛЛЕКТУАЛЬНО – ЛИЧНОСТНЫЙ МАРАФОН МЛАДШИХ ШКОЛЬНИКОВ «Первый шаг…»

Школьный тур

Естественно-математический тур – 1 класс

Внимательно читай задания, не спеши! Время выполнения – 1 урок.

Желаем успеха!

Часть А

1. Какие числа надо переставить, чтобы они шли в порядке возрастания:

1, 2, 3, 5, 4, 6, 8, 7, 9

Ответ: _____

2. Составь всевозможные двузначные числа из цифр 0, 1 и 2. Цифры в записи числа могут повторяться.

Ответ:_____

3. Дети встали друг за другом. Оля заметила, что впереди нее стоит 4 человека, а позади – 3. Сколько всего детей?

Ответ:_____

4. Нарисуй в рамке, какая фигура получится.

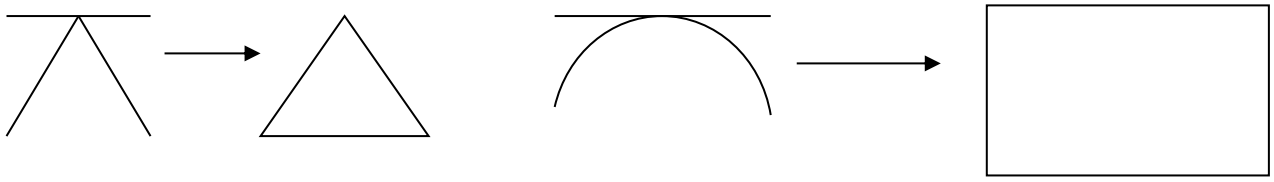

5. Петя и Серёжа ходили в зоопарк. Петя фотографировал жирафа и бегемота, а Серёжа – белого медведя и моржа. Кто из ребят фотографировал животных Севера?



Ответ:_____

Часть В

1. **Раскрась прямоугольники так, чтобы красный был рядом с зелёным; зелёный был слева от маленького, а синий справа от зелёного.**

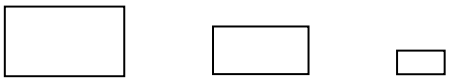

2. **Поставь вместо □ такие знаки действий, чтобы равенство было верным.**

5 □ 5 □ 15 = 15

3. **Сосчитай кубики. Напиши их количество.**



Ответ:_____

4. **Отгадай ребусы:**

_____ _____ _____

Часть С

1. **Определи по часам, через сколько минут часы покажут полдень? Ответ:_____**

2**. Миша и Оля решали «волшебные» примеры. Миша решил быстро и правильно. Помоги Оле решить эти примеры.**

М + В = 5 _____

В + В = 4 _____

АУ + А = АА _____

А + З = АУ _____

Ответ:_____

3. Улитка от точки А проползла 2 см на север, потом 3 см на запад, потом 2 см на юг, а потом 3 см на восток. Где она оказалась в результате? **Отметь эту точку.**

1см = 2 клетки

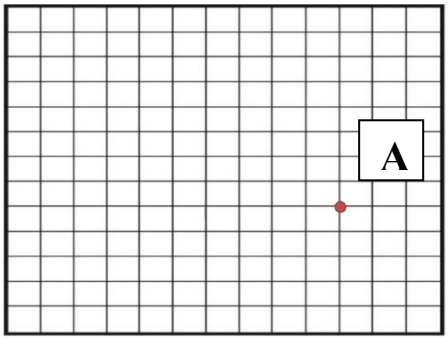

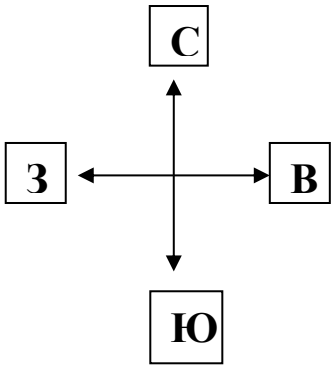

4. **Реши задачу. Объясни решение.**

По дороге один за другим идут 5 детей. За каждым мальчиком, кроме последнего, идёт девочка. Сколько девочек идёт по дороге?

_____

_____

_____

_____

Спасибо за труд!