Управление образования Администрации ЗАТО Северск Томской области
Ресурсный центр образования ЗАТО Северск Томской области

МУНИЦИПАЛЬНЫЙ ОТКРЫТЫЙ ИНТЕЛЛЕКТУАЛНО-ЛИЧНОСТНЫЙ МАРАФОН МЛАДШИХ ШКОЛЬНИКОВ
«Первый шаг…»

Естественно – математический тур – 3 класс

Часть А
Задания с одним выбором ответа

1. Найдите закономерность и раскрасьте последний квадрат.

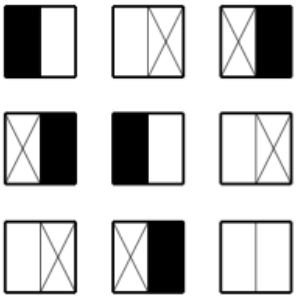

2. Что можно делать в заповедниках?

а) собирать ягоды б) рвать орехи в) разводить костер г) фотографировать

3. К какой группе животных относится улитка?

а) земноводные б) пресмыкающиеся в) моллюски

4. Если от 100 отнять 28, то результат будет больше в 8 раз нужного числа. Назови это число.

а) 9 б) 576 в) 64 г) 80

5. Какой из предметов сделан из того, что когда-то было живым?

а) глиняная кружка в) льняное платье

б) стальной нож г) кирпичный дом

Часть Б.
Задания, которые требуют решения и ответ.

1. Раздели прямой линией циферблат часов на две части так, чтобы суммы чисел в этих частях были равными.



2. Отгадай и напиши название растения.

1. Это дерево в России символ чистоты, верности _____

2. Плоды этого дерева - любимый корм свиней и кабанов _____

3. Плоды этого дерева хоть и горьки на вкус, но это любимая еда снегирей и свиристелей _____

4. Самый вкусный мед пчелы собирают с цветов этого дерева _____

5. Основной корм оленей в тундре зимой. _____

6. "Цветок солнца". _____

7. Знаменито это растение своими колючками и цепкими плодиками. Пройдёт мимо человек, пробежит зверь – уцепится плодик и путешествует. А где упадёт – может вырасти _____

8. Какое растение имеет самые крупные плоды? _____

3. Найди четыре названия животных в кроссворде.

А	Ю	Ж	К	О	Р	Е	Ц	А
О	С	Ё	К	Ч	Е	Ч	О	Х
Л	О	Л	Р	К	А	С	В	А
К	Щ	В	О	Д	И	О	А	Н
А	Я	Ц	Р	Ю	К	Б	А	Р
З	Д	С	В	Л	Т	И	К	З
А	В	Е	Р	Б	Ь	Я	А	Н

Напиши ответы:_____
_____

4. Реши задачу. Запиши решение.

У Незнайки было 5 целых груш, 6 половинок да 8 четвертинок. Сколько всего груш было у Незнайки?

_____

_____

_____

5. Реши задачу. Объясни решение.

Было 9 листов бумаги. Некоторые из них разрезали на три части. Всего стало 15 листов. Сколько листов бумаги разрезали?

_____

_____

6. Отгадай кроссворд «Органы человека».

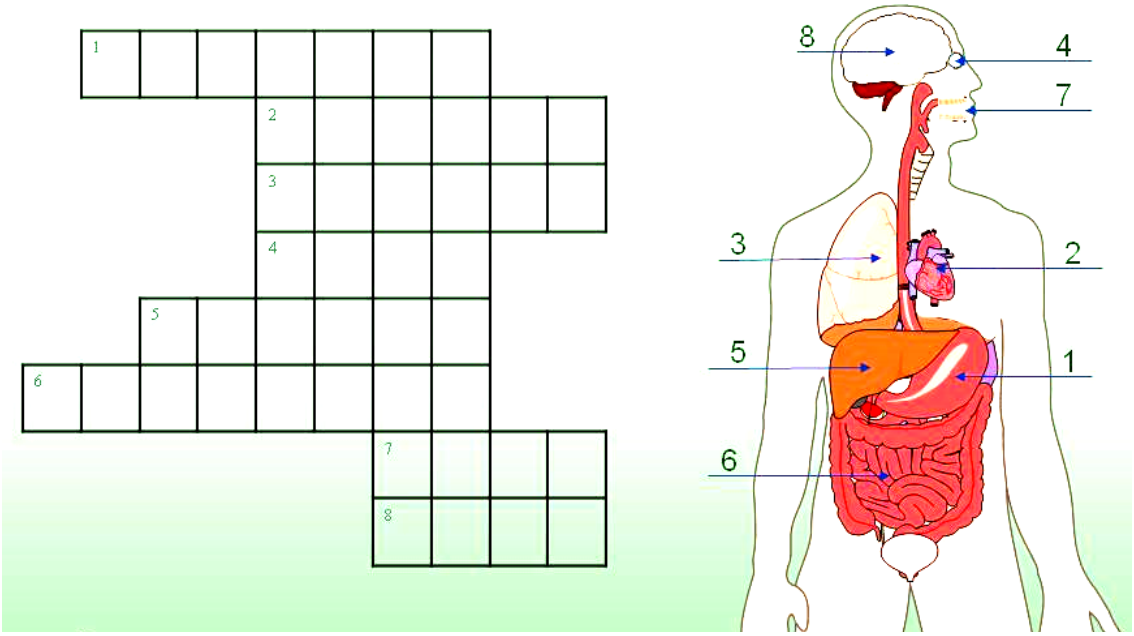

Часть С.
Задания с развернутым решением и ответом.

1. Реши задачу. Запиши решение и ответ.
1 резинка, 2 карандаша и 3 блокнота стоят 38 руб. 3 резинки, 2 карандаша и 1 блокнот стоят 22 руб. Сколько стоит комплект из резинки, карандаша и блокнота?

_____
_____
_____

2. Заполни пропуски в схемах развития животных. <u>Напиши</u> ответ в рамках.

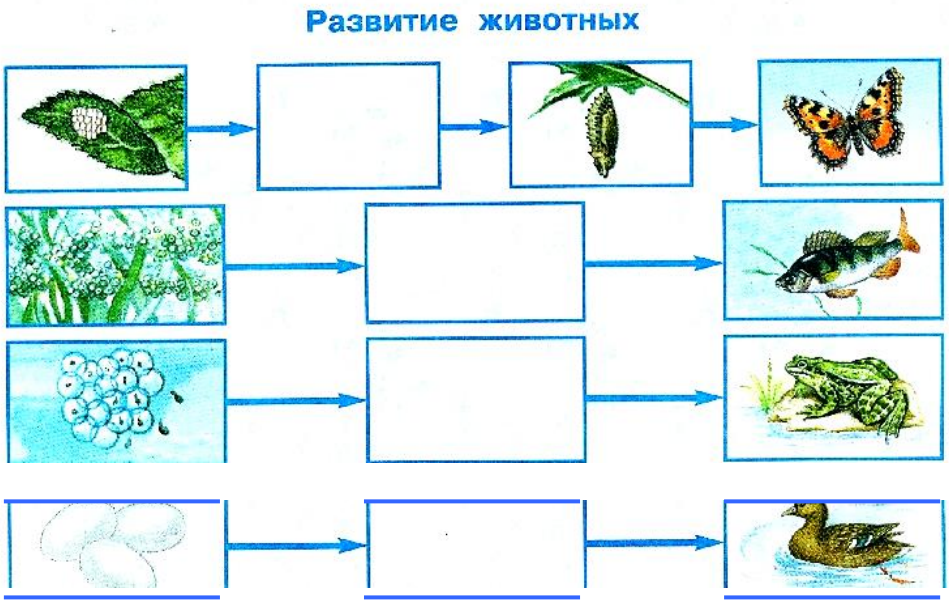

3. Реши задачу. Запиши решение и ответ.
Рост Буратино 1м 4дм, а длина его носа раньше была 9см. Каждый раз, когда Буратино обманывал, длина его носа удваивалась. Как только его нос стал длиннее его роста, Буратино перестал обманывать. Сколько раз он обманул?

_____
_____
_____
_____
_____
_____

Спасибо за труд!