Управление образования Администрации ЗАТО Северск Томской области
Ресурсный центр образования ЗАТО Северск Томской области

МУНИЦИПАЛЬНЫЙ ОТКРЫТЫЙ ИНТЕЛЛЕКТУАЛНО-ЛИЧНОСТНЫЙ МАРАФОН МЛАДШИХ ШКОЛЬНИКОВ
«Первый шаг…»

Задания индивидуального тура по окружающему миру

Дорогой олимпиец!
Мы предлагаем тебе задания, состоящие из трёх частей: А, Б, С.
Постарайся выполнить все задания.
Желаем успеха!

ЧАСТЬ А

Задание 1

Соотнеси названия внутренних органов человека с системой, к которой они относятся.

Внутренний орган	Система органов
1. Кишечник	А. Нервная система
2. Легкое	Б. Кровеносная система
3. Головной мозг	В. Пищеварительная система
4. Сердце	Г. Дыхательная система
5. Желудок	

А) 1г2г3а4б5в Б) 1в2б3а4г5в В) 1б2г3а4г5б Г) 1в2г3а4б5в

(1 балл)

Задание 2

Какие умения отличают человека от других обитателей Земли?

А. умения сочувствовать и мечтать Б. умения плакать и радоваться
В. умение есть и пить Г. умение бегать и спать

(1 балл)

Задание 3

Что такое летопись?

А. описание всего происходящего Б. одна из частей Библии
В. описание самых важных событий в исторической последовательности

(1 балл)

Задание 4

Подчеркни, какое существо на нашей планете активно воздействует на живую и неживую природу и изменяет её своей неразумной деятельностью.

а) Растение б) животные в) грибы г) человек д) бактерии

(1 балл)

Задание 5

Какая цепь питания соответствует зоне Тундры?

А) Растения – суслики – змеи Б) Ягель – олень – волк
В) Водоросли – рачки – рыбы – тюлени Г) Дуб – сойка – сова

(1 балл)

Пожалуйста, переверни страницу.

ЧАСТЬ ***Б***

Задание 1

Вычеркни лишнее название в каждой строчке.

Лягушка, ёж, гадюка, хамелеон, уж.

Лист, почва, стебель, плод, корень.

Гнездо, нора, курятник, берлога, муравейник.

Гранит, каменный уголь, полиэтилен, торф, природный газ.

Россия, Франция, Урал, Китай.

Дон, Волга, Байкал, Днепр.

(3 балла)

Задание 2

Укажи стрелкой, что к чему приводит?

Выловили всех раков		Вода в водоёме стала мутной.
Выловили все ракушки (двустворчатые моллюски)		В водоёме стало много больных рыб.
Зимой рыбаки наделали много лунок.		Начинается образование болот.
Всё озеро заросло камышами, водорослями.		В воду поступает кислород для дыхания рыб.

(2 балла)

Задание 3

Прочитайте названия живых организмов:

Тля, филин, берёза, заяц, королёк, дуб, ястреб, осина, долгоносик, поползень.

Составьте три цепи питания, звеньями которых являются перечисленные организмы.

1. Растение – растительноядное животное – насекомоядное животное.
2. Растение - растительноядное животное – хищное животное.
3. Растение – растительноядное животное – насекомоядное - хищник

(3 балла)

Задание 4

Узнай по описанию, о какой природной зоне идёт речь

А) До самого горизонта расстилалась холмистая равнина, покрытая снегом. На ней не было видно ни деревца, ни кустика. Лишь вдали виднелось стадо оленей, да скрипел снег под полозьями нарт. _____

Б) С приближением лета с каждым днём становилось жарче. Лучи горячего солнца выпивают последнюю воду из почвы и растений. Вот проносится горячий суховей. И нет уже цветов, нет яркой травы – пожелтела, выгорела, остались только травы с узкими листьями. _____

В) Солнце печёт немилосердно. С вершины бархана во все стороны видны только сыпучие пески. Кажется, что нас окружают песчаные моря._____

(3 балла)

Пожалуйста, переверни страницу.

Задание 5

Прочитайте приведенные в таблице примеры. Какие свойства воды и воздуха в них описаны? Запиши эти свойства.

Примеры	*Свойства*
В аквариуме, наполненном водой, хорошо видна форма и цвет рыб и растений.	
Вода в стакане оказалась сладкой на вкус.	
На сильном морозе стеклянная банка, наполненная водой, лопнула.	
Мама на кухне печет пирог. Ты находишься в другой комнате и не видишь, что делает мама, но точно определяешь, что она печет пирог.	
Зимнюю одежду утепляют мехом или слоем ткани из рыхлых волокон.	

(2 балла)

Задание 6

Напиши названия частей света. Из букв, записанных в закрашенных клетках, составь слово. Запиши его в ответе.

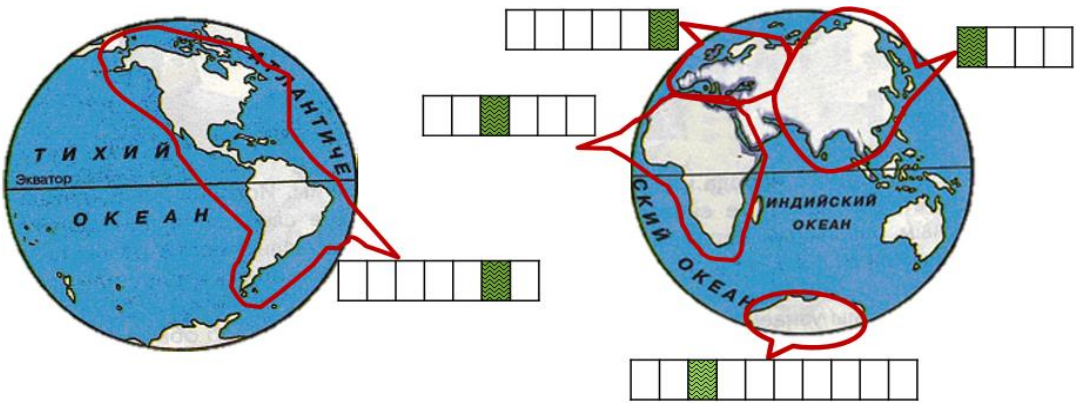

_____ ***(2 балла)***

*<u>ЧАСТЬ **С**</u>*

Задание 1

Разгадай ребус. Выбери вариант ответа, который подходит к разгаданному слову. Напиши, где применяют и как применяют это вещество.

_ А) бесцветный лёгкий газ

Б) твёрдая горная порода, образовавшаяся из остатков растений

В) твёрдый сплав железа с углеродом

Г) густая маслянистая жидкость тёмного цвета, горючая

_____

_____

_____

(2балла)

Пожалуйста, переверни страницу.

Задание 2

Чем и как помогали люди, проживающие на территории Северска, победе в Великой Отечественной войне?

_____
_____
_____
_____
_____
_____

(4 балла)

Задание 3

Соедини фамилии известных людей с их портретами. Чем прославились эти люди? Заполни таблицу.

			Чем прославился
		Фернан Магеллан	
		Юрий Гагарин	
		Жак-Ив Кусто	
		Георгий Жуков	
		Николай Пржевальский	
		Константин Циолковский	

(5 баллов)

Спасибо за работу!